Prénom : _____ Date: _____

CALCULS : vers la multiplication



1 Ecris le nombre de voitures de plusieurs façons :



___ + ___ + ___ + ___ = ___

___ + ___ + ___ + ___ + ___ = ___

On peut aussi écrire : ___ x ___ ou ___ x ___

2 Voici des pommes, Lisa a fait plusieurs paquets.
Complète les calculs:



___ x ___ = ___



___ x ___ = ___



___ x ___ = ___

Problème :

Juliette, Laurie et Dorothée jouent aux cartes.
Chacune a 5 cartes dans la main.
Combien y a-t-il de cartes en tout?

dessin ou calcul :

phrase réponse :

Prénom : _____ Date: _____

CALCULS : vers la multiplication



1 Colorie de la même couleur les calculs et leur résultat:

2 x 5

12

5 x 3

3 x 4

24

15

4 x 6

5 + 5

6+6+6+6

3+3+3+3+3

4 + 4 + 4

10

2 Colorie comme demandé :



3 x 5



4 x 3

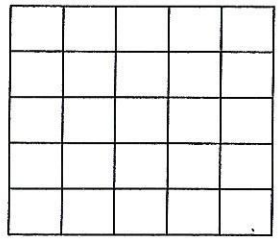

5 x 2

Problème :

Lorsque Kévin, Caroline, Noah et Sarah montent une main chacun, combien y a-t-il de doigts levés?

dessin ou calcul :

phrase réponse :